Problemas para 5.º y 6.º de Primaria

Tipos de problema

Así es un modelo de barras:

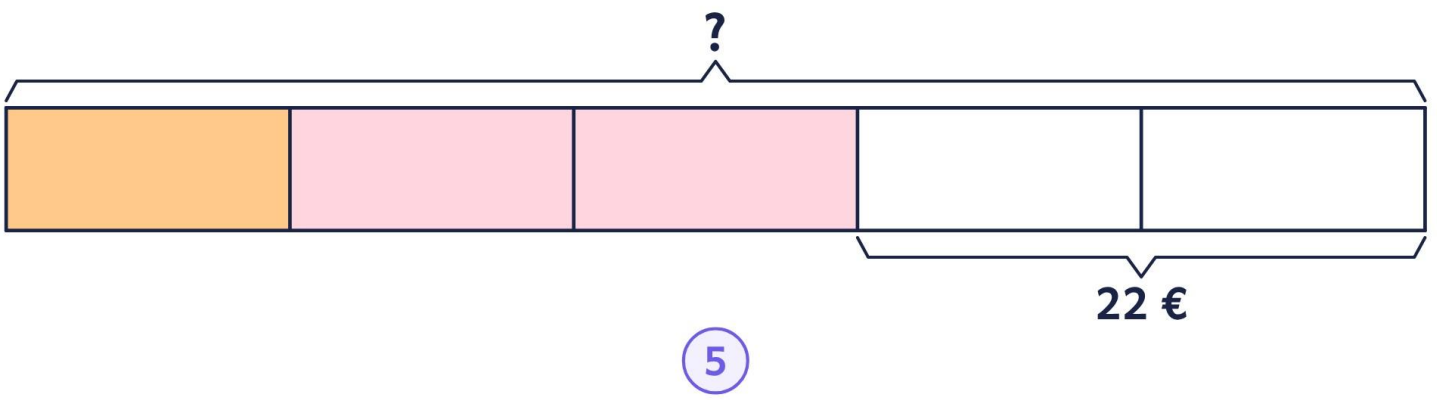

Tipos de problema

- Fracción del resto
- Comparar y sumar

Nombre:

Curso:

Escanea: más fichas gratis

© 2026 olesur.com · modelo de barras · Uso educativo. Prohibida su venta o redistribución.

Problemas para 5.º y 6.º de Primaria

Nombre: _____ Fecha: _____

Lee el problema, fíjate en el modelo y calcula el valor de «?».

Problema 1

Luis gasta 1/5 de su dinero en un libro y la mitad de lo que le queda en un juego. Todavía le quedan 22 €. ¿Cuánto dinero tenía al principio?

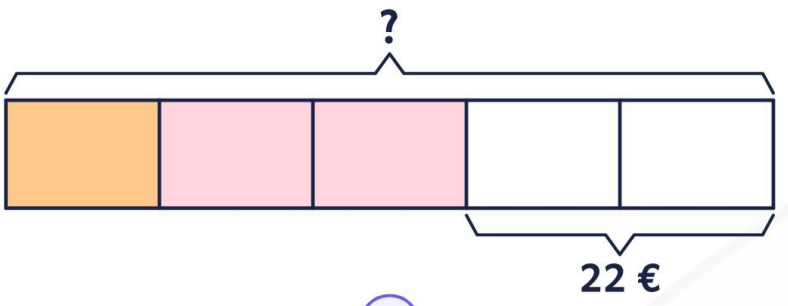

5

Operación: _____ Solución: _____

Problema 2

Pablo tiene 34 flores. Carmen tiene 32 más que Pablo. ¿Cuántas flores tienen entre los dos?

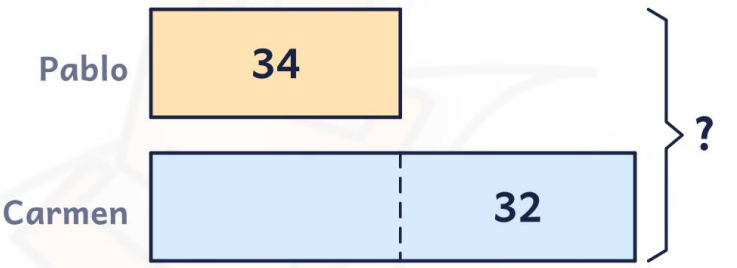

Operación: _____ Solución: _____

Problema 3

Hugo gasta 1/4 de su dinero en un libro y 1/3 de lo que le queda en un juego. Todavía le quedan 24 €. ¿Cuánto dinero tenía al principio?

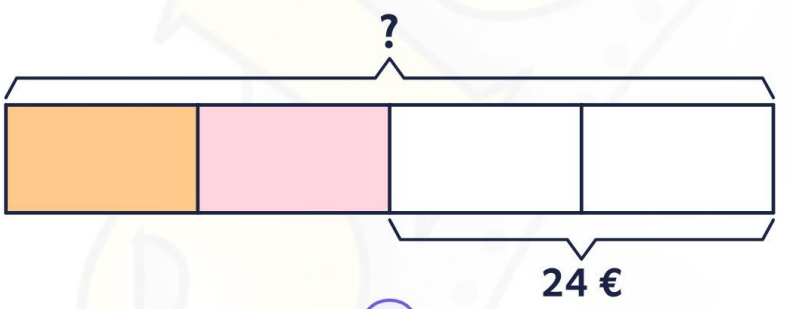

4

Operación: _____ Solución: _____

Problema 4

Carmen tiene 35 canicas. Mario tiene 14 más que Carmen. ¿Cuántas canicas tienen entre los dos?

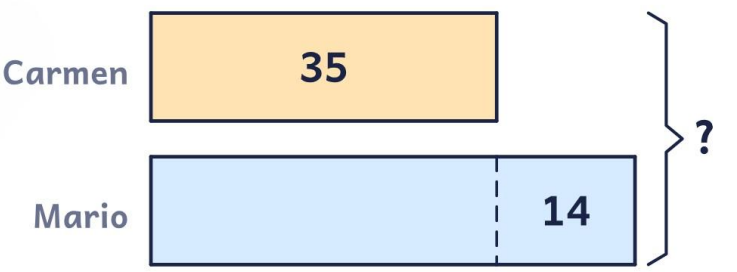

Operación: _____ Solución: _____

© 2026 olesur.com · modelo de barras · Uso educativo. Prohibida su venta o redistribución.

Problemas para 5.º y 6.º de Primaria

Nombre: _____ Fecha: _____

Lee el problema, escribe cada número en su hueco del modelo y resuélvelo.

Problema 1

Leo gasta 1/7 de su dinero en un libro y la mitad de lo que le queda en un juego. Todavía le quedan 15 €. ¿Cuánto dinero tenía al principio?

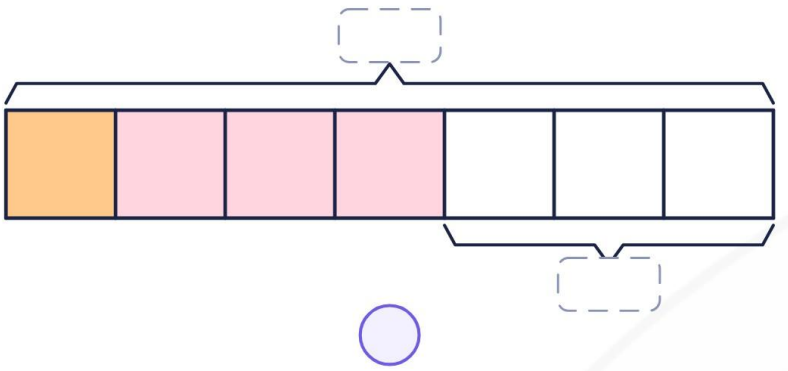

Operación: _____ Solución: _____

Problema 2

Pablo gasta 1/7 de su dinero en un libro y 1/3 de lo que le queda en un juego. Todavía le quedan 28 €. ¿Cuánto dinero tenía al principio?

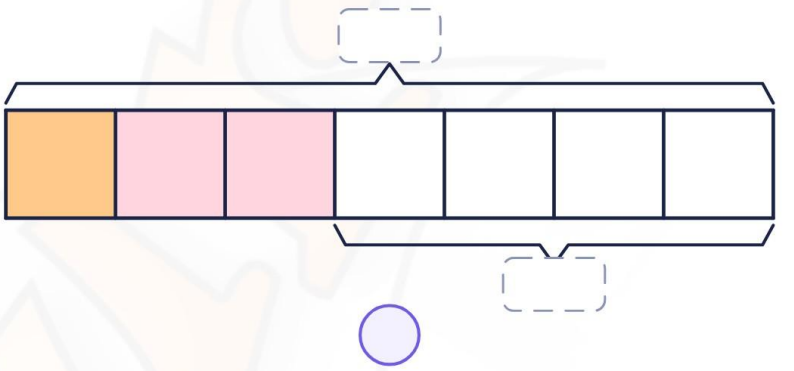

Operación: _____ Solución: _____

Problema 3

Carmen tiene 4 cromos. Luis tiene 3 más que Carmen. ¿Cuántos cromos tienen entre los dos?

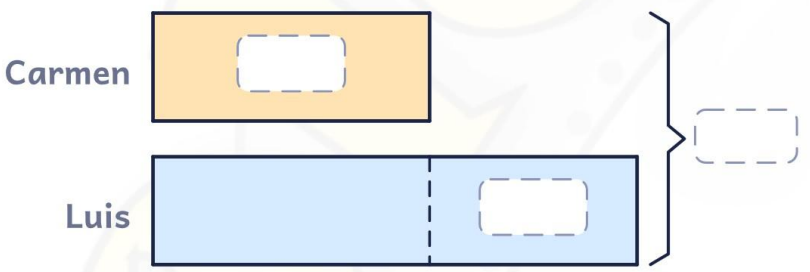

Operación: _____ Solución: _____

Problema 4

Carmen gasta 1/4 de su dinero en un libro y 1/3 de lo que le queda en un juego. Todavía le quedan 46 €. ¿Cuánto dinero tenía al principio?

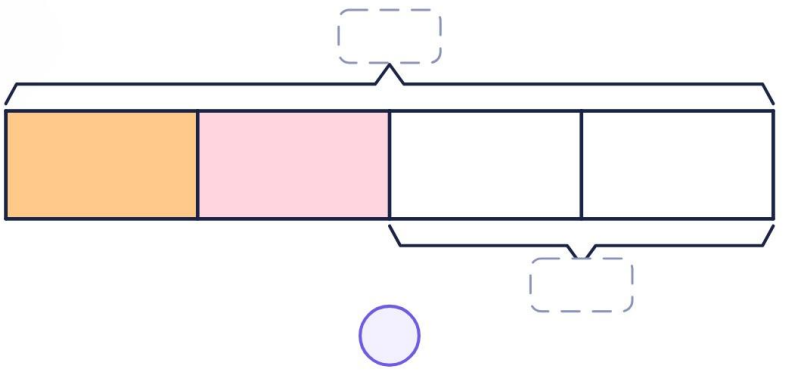

Operación: _____ Solución: _____

© 2026 olesur.com · modelo de barras · Uso educativo. Prohibida su venta o redistribución.

Problemas para 5.º y 6.º de Primaria

Nombre: _____ Fecha: _____

Lee cada problema, dibuja su modelo de barras y resuélvelo.

Problema 1

Ana tiene 25 años y su madre, 53. ¿Dentro de cuántos años tendrá la madre el doble de la edad de Ana?

Dibuja aquí el modelo de barras

Operación: _____ **Solución:** _____

Problema 2

Mario tiene 37 conchas. Leo tiene 18 más que Mario. ¿Cuántas conchas tienen entre los dos?

Dibuja aquí el modelo de barras

Operación: _____ **Solución:** _____

Problema 3

Pablo tiene 21 flores. Hugo tiene 11 más que Pablo. ¿Cuántas flores tienen entre los dos?

Dibuja aquí el modelo de barras

Operación: _____ **Solución:** _____

Problema 4

Carmen tiene 17 flores. Leo tiene 16 más que Carmen. ¿Cuántas flores tienen entre los dos?

Dibuja aquí el modelo de barras

Operación: _____ **Solución:** _____

© 2026 olesur.com · modelo de barras · Uso educativo. Prohibida su venta o redistribución.

Problemas para 5.º y 6.º de Primaria

Soluciones

Problema 1

Luis gasta 1/5 de su dinero en un libro y la mitad de lo que le queda en un juego. Todavía le quedan 22 €. ¿Cuánto dinero tenía al principio?

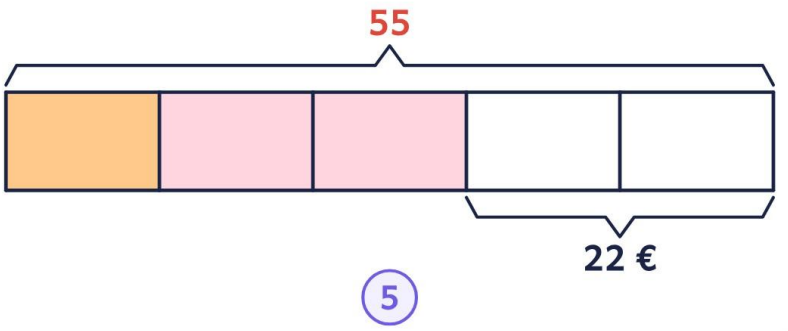

Solución: 55

Problema 2

Pablo tiene 34 flores. Carmen tiene 32 más que Pablo. ¿Cuántas flores tienen entre los dos?

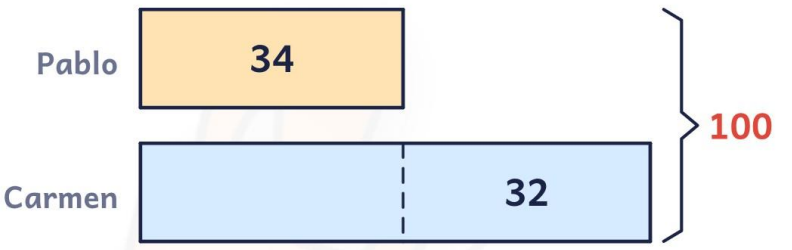

Solución: 100

Problema 3

Hugo gasta 1/4 de su dinero en un libro y 1/3 de lo que le queda en un juego. Todavía le quedan 24 €. ¿Cuánto dinero tenía al principio?

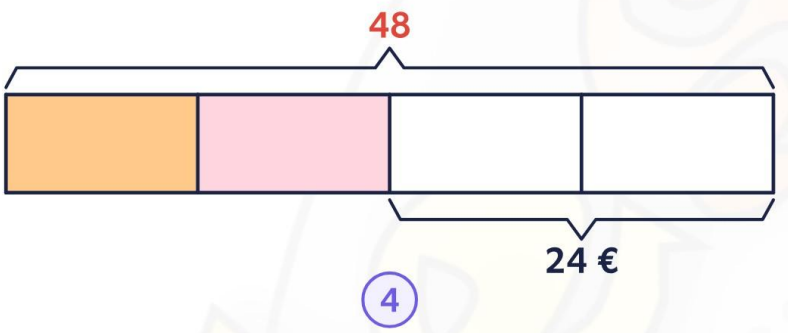

Solución: 48

Problema 4

Carmen tiene 35 canicas. Mario tiene 14 más que Carmen. ¿Cuántas canicas tienen entre los dos?

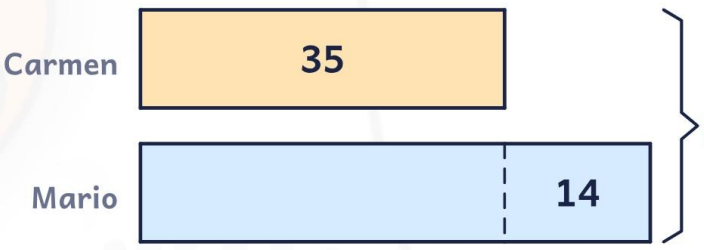

Solución: 84

© 2026 olesur.com · modelo de barras · Uso educativo. Prohibida su venta o redistribución.

Problemas para 5.º y 6.º de Primaria

Soluciones

Problema 1

Leo gasta 1/7 de su dinero en un libro y la mitad de lo que le queda en un juego. Todavía le quedan 15 €. ¿Cuánto dinero tenía al principio?

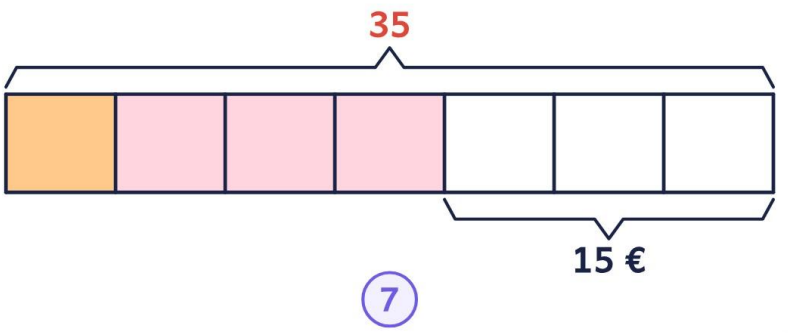

Solución: 35

Problema 2

Pablo gasta 1/7 de su dinero en un libro y 1/3 de lo que le queda en un juego. Todavía le quedan 28 €. ¿Cuánto dinero tenía al principio?

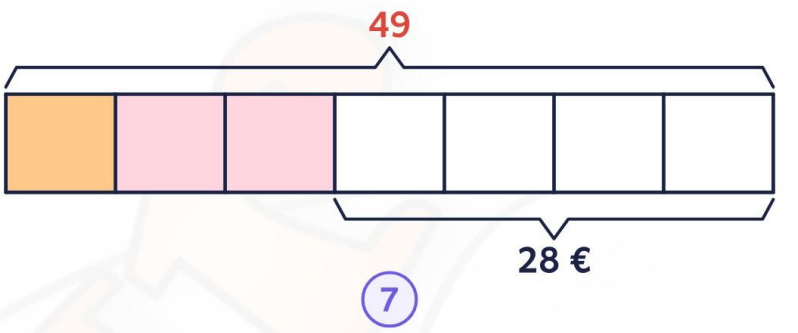

Solución: 49

Problema 3

Carmen tiene 4 cromos. Luis tiene 3 más que Carmen. ¿Cuántos cromos tienen entre los dos?

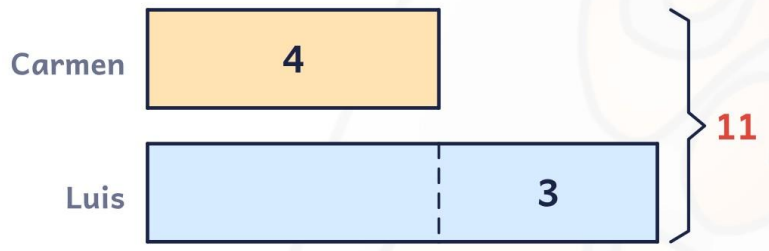

Solución: 11

Problema 4

Carmen gasta 1/4 de su dinero en un libro y 1/3 de lo que le queda en un juego. Todavía le quedan 46 €. ¿Cuánto dinero tenía al principio?

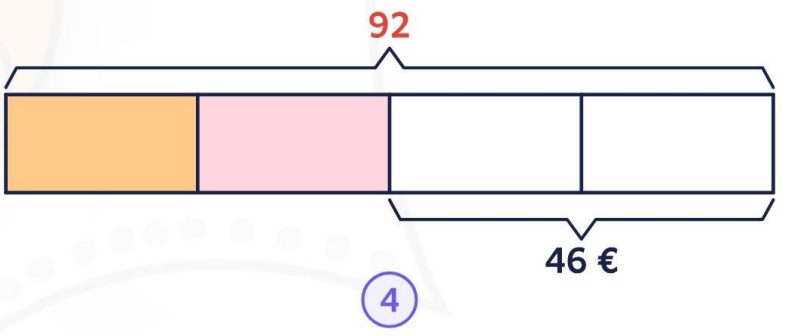

Solución: 92

© 2026 olesur.com · modelo de barras · Uso educativo. Prohibida su venta o redistribución.

Problemas para 5.º y 6.º de Primaria

Soluciones

Problema 1

Ana tiene 25 años y su madre, 53. ¿Dentro de cuántos años tendrá la madre el doble de la edad de Ana?

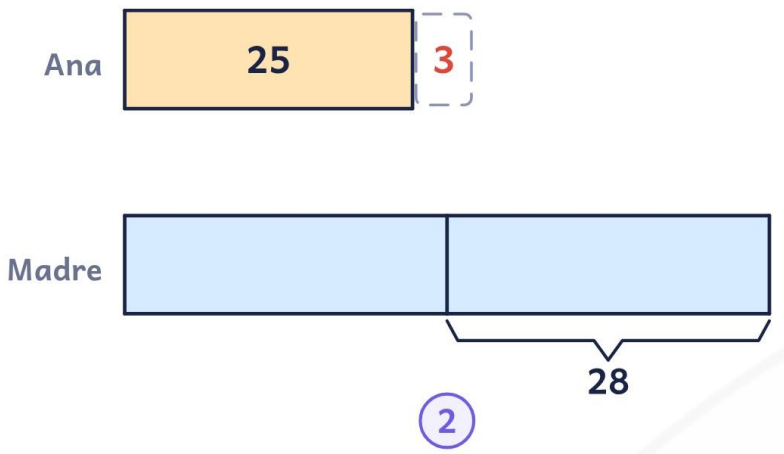

Solución: 3

Problema 2

Mario tiene 37 conchas. Leo tiene 18 más que Mario. ¿Cuántas conchas tienen entre los dos?

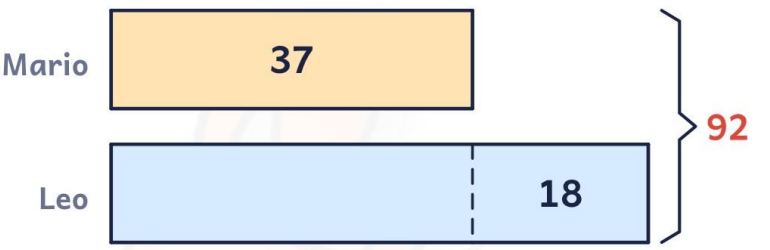

Solución: 92

Problema 3

Pablo tiene 21 flores. Hugo tiene 11 más que Pablo. ¿Cuántas flores tienen entre los dos?

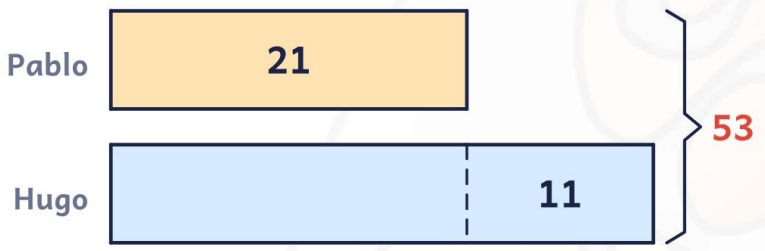

Solución: 53

Problema 4

Carmen tiene 17 flores. Leo tiene 16 más que Carmen. ¿Cuántas flores tienen entre los dos?

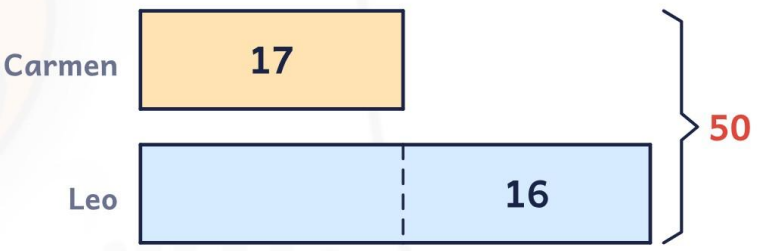

Solución: 50

© 2026 olesur.com · modelo de barras · Uso educativo. Prohibida su venta o redistribución.